NOM …….. DATE …… GÉOMÉTRIE

Colorie en bleu les triangles, en rouge les quadrilatères et en orange les pentagones.

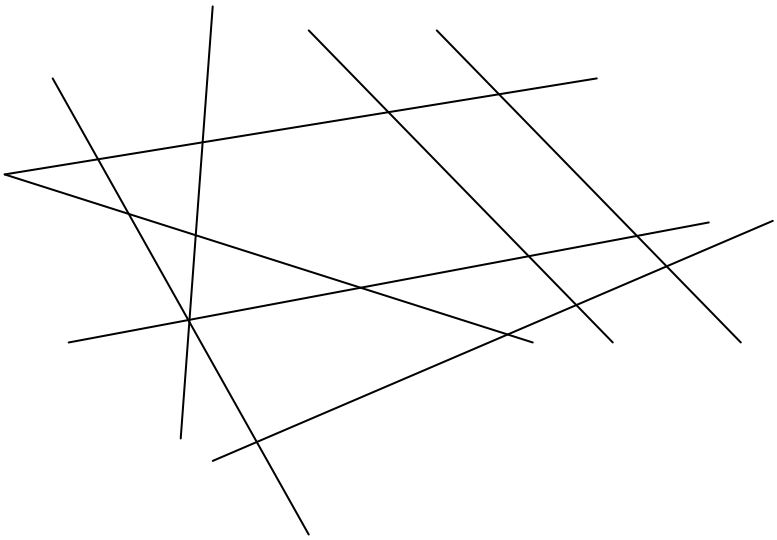

Termine les tracés pour obtenir les polygones demandés.

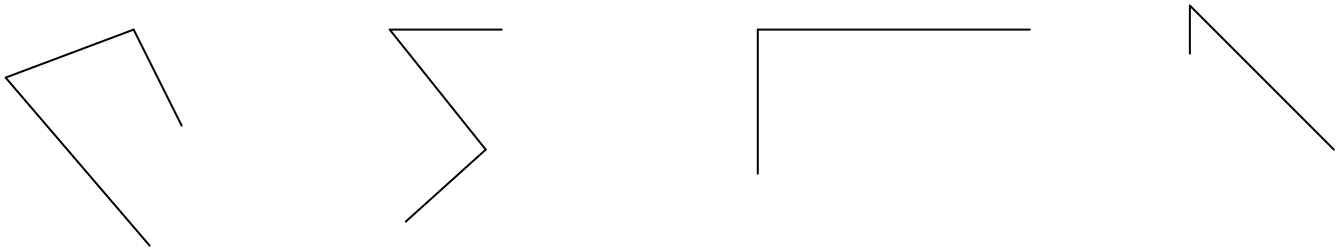

un pentagone un hexagone un rectangle un triangle

Dans le quadrillage de droite, reproduis à l'identique les polygones du quadrillage de gauche.

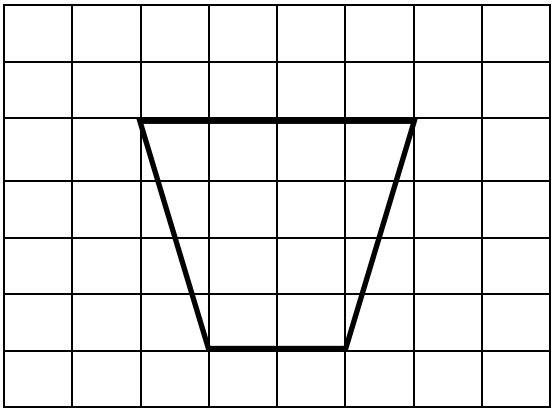



Écris le nom du polygone à 3 côtés : ……

Écris le nom du polygone à 5 côtés : ……

Écris le nom du polygone à 6 côtés : ……